設問3　次の設問で正しいものを選び記入欄に（1）～（3）を選んで記入しなさい。

例題　浄土真宗のご本尊を次の中から選んで下さい。 …… 1

（1）阿弥陀如来　（2）大日如来　（3）釈迦如来

問1　祈りの日は何月何日ですか。（1)3月27日　(2)8月15日　(3)9月21日 …… 1

問2　右の紋は何宗で使われているものですか。（1)天台宗　(2)曹洞宗　(3)日蓮宗 …… 2

問2

問3　衆生本来ほとけなり、という「坐禅和讃」を著したのは誰ですか。（1）天海　（2）白隠　（3）　沢庵 …… 2

問4　旧盆と呼ばれるのは何月何日ですか　(1)7月15日　(2)8月15日　(3)9月2日 …… 2

問5

問5　右の如来坐像は何如来ですか。（1)阿弥陀如来　(2)釈迦如来　(3)大日如来 …… 3

問6　仏像の高さで身丈（みたけ）という場合にはどこの高さになりますか。（1）①　（2）②　（3）③ …… 3

問6

問7　中有など死後の世界と生まれ変わりを記した経典は何ですか。（1）華厳経　（2）倶舎論（くしゃろん）　（3）般若心経 …… 2

問8　仏事において、一周忌、三回忌に続いて行われるは何回忌ですか。（1）七回忌　（2）九回忌　（3）十三回忌 …… 1

問9　閻魔王は何仏が姿を変えたものとされますか。（1）阿弥陀如来　（2）大日如来　（3）地蔵菩薩 …… 3

問10　神道で仏教の位牌にあたるものは何と呼ばれますか。（1）霊璽（れいじ）　（2）神位（しんい）　（3）神牌（しんぱい） …… 1



問10

問11　1938年11月5日生まれの方が2020年1月16日に亡くなった場合は数え年で何歳ですか。 …… 3
（1）81歳　（2）82歳　（3）83歳

問12　右の金箔の製法で作られる金箔を何と呼びますか。（1）縁付け（えんづ）箔　（2）断切（たちきり）箔　（3）澄（ずみ）箔 …… 1



問12

採点欄

（前頁より設問の続き　設問3　次の設問で正しいものを選び回答欄に記入しなさい。）

問13　アワビや蝶貝の光沢を用いた漆芸技法を何と呼びますか。（1）螺鈿（らでん）　（2）梨地　（3）砂子 …… 1

問14　右の仏具は何宗何派のものですか。（1）浄土真宗本願寺派　（2）真宗大谷派　（3）真宗高田派 …… 2

問15　右のような欄間を何と呼びますか。（1）彫刻欄間　（2）飾り欄間　（3）筬（おさ）欄間 …… 3

問16　ウォールナットはどこで産出される材料ですか。（1）日本　（2）北米　（3）中南米 …… 2

問17　桜は何科の広葉樹ですか。（1）カエデ科　（2）バラ科　（3）ブナ科 …… 2

問18　仏壇公正規約において国産の表示ができる唐木仏壇の場合、
必ず国産でないといけない工程はどれですか。（1）彫刻　（2）宮殿　（3）木地 …… 3

問19　右の荘厳は何宗のものですか。（1）日蓮宗　（2）浄土宗　（3）臨済宗 …… 1

問20　右の盆提灯は何と呼ばれますか。（1）大内行灯　（2）住吉　（3）切子灯籠 …… 2

問21　アンバーと呼ばれる珠数玉の素材は次のどれですか。（1）水晶　（2）メノウ　（3）琥珀 …… 3

問22　右の房は何と呼びますか。（1）梵天房　（2）切り房　（3）撚り房 …… 1

問23　夫の戒名の位号が居士の場合、妻の位号は一般的に何ですか。（1）信女　（2）大姉　（3）清女 …… 2

問24　右の図は何ですか。（1）大黒天　（2）恵比寿　（3）八幡 …… 2

問25　事実と異なることを告げた場合、お客様が契約を取り消すことげできることを定めた法律は何ですか。
（1）特定商取引法　（2）消費者契約法　（3）個人情報保護法 …… 2

問14

問15

問19



問20

問22

問24

採点欄